MEGANIESE SAMESTELLING	VRAAG 4	90 PUNTE

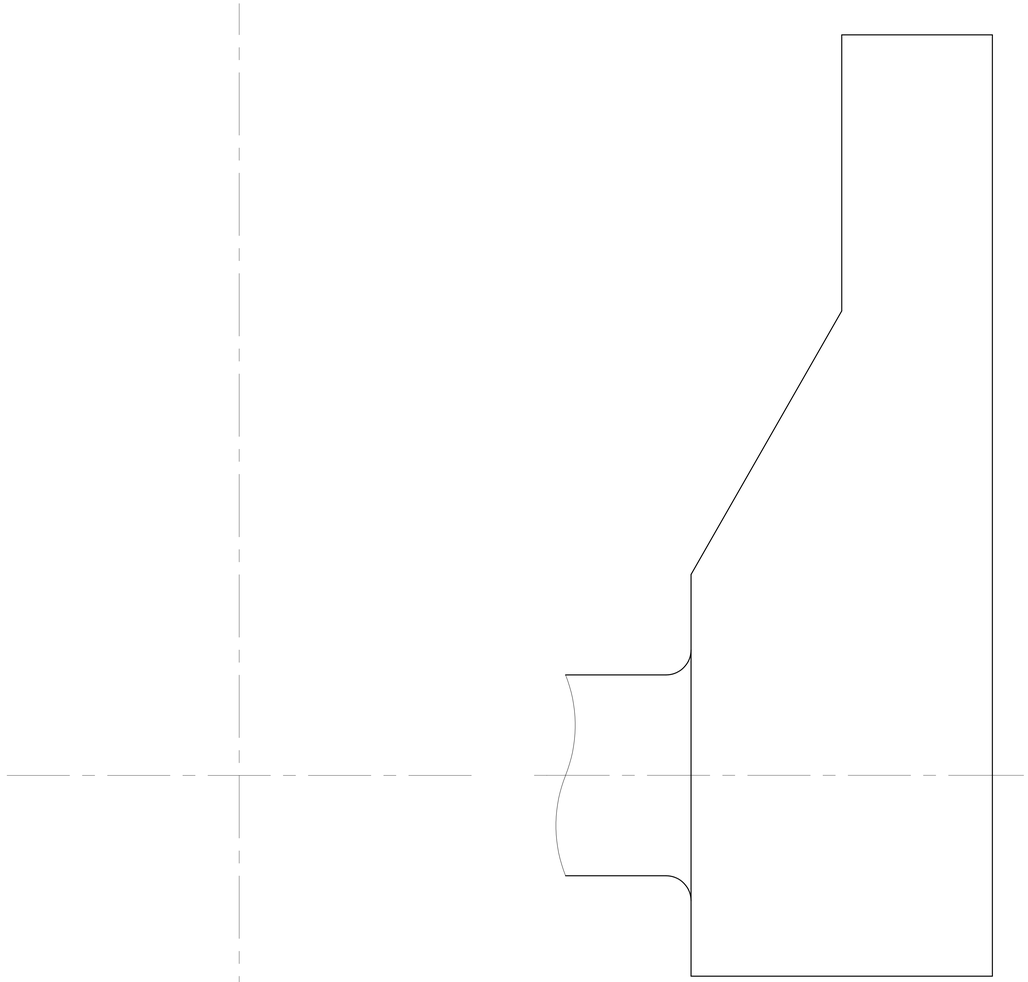

Gegee is 'n figuur wat die komponente van 'n KRUKARM SAMESTELLING toon.

Teken volgens skaal 2:1 en in derde hoeks ortografiese projeksie die volgende aansigte van die saamgestelde KRUKARM SAMESTELLING:

1. 'n Volsnit voor aansig. Drie sye van die moer moet sigbaar wees.
2. 'n Buite linker aansig met die onderdele saamgestel.
3. Toon snyvlak A-A in die korekte posisie.
4. Alle arsering moet getoon word.

Skryf die titel en skaal in die titel blok. Teken die korekte projeksie simbool vir derde hoeks ortografiese projeksie.

PARTS LIST / ONDERDELELYS			
ITEM ITEM	NAME	NAAM	REQ. HOEV.
A	ARM	ARM	1
B	SHAFT	AS	1
C	PIN	PEN	1
D	M6 NUT	M6 MOER	1
E	WASHER	WASSER	1

A

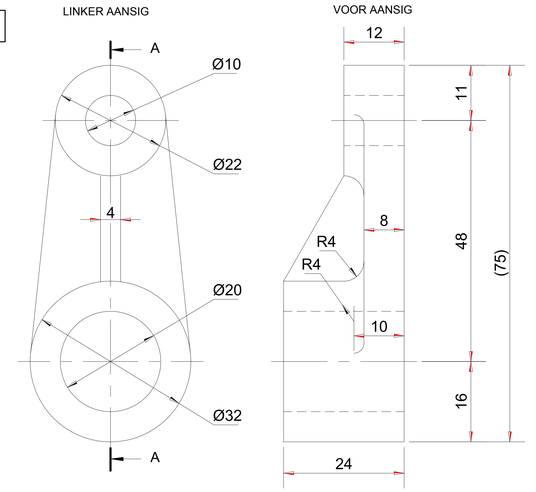

B

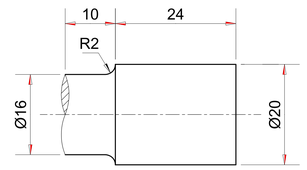

C

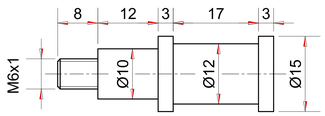

D

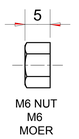

E

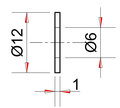

ASSESSEERINGS KRITERIA

		ACHIEVED MARK	POSSIBLE MARK
TITEL, SKAAL, SIMBOOL	A		5
MIDDELLYN	B		2
SNIT	C		8
GEEN SNIT	D		2
M6 MOER	E		15
M6 MOER KONSTRUKSIE	F		4
ONDERDEEL B	G		10
ONDERDEEL C	H		19
SKROEFDRAAD	J		4
BINNE SKROEFDRAAD	K		4
ONDERDEEL A	L		10
SAMESTELLING	M		7
TOTAAL			90

ANTWOORDBLAD 4

NAAM & VAN: